IL RETICOLATO GEOGRAFICO

La terra è stata divisa idealmente in tante parti formando un reticolato attraverso MERIDIANI e PARALLELI.

I meridiani sono le linee tracciate dal POLO NORD al POLO SUD (sono 360). Il meridiano fondamentale è quello di Greenwich a Londra, da esso ha inizio la numerazione di tutti gli altri.

I PARALLELI sono le linee tracciate da EST a OVEST(sono 180).



L'EQUATORE è il parallelo zero.

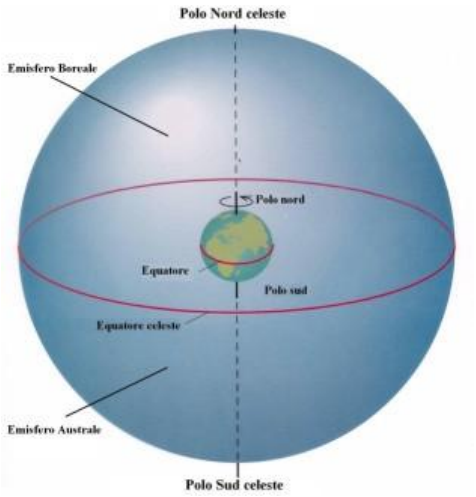

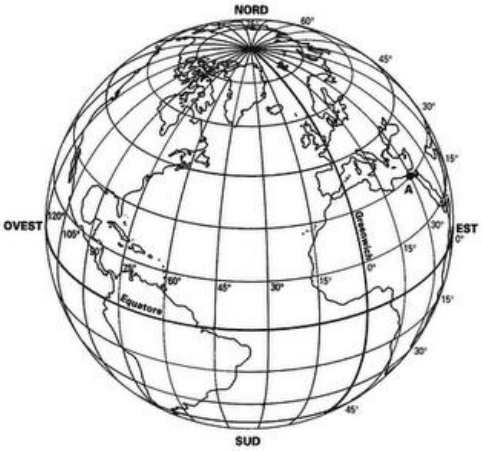

LATITUDINE E LONGITUDINE

La rete dei meridiani e dei paralleli ci consente di localizzare con precisione ogni punto della superficie terrestre attraverso le coordinate geografiche.

La latitudine è la distanza di un punto dall'equatore.

La longitudine è la distanza di un punto dal meridiano fondamentale.

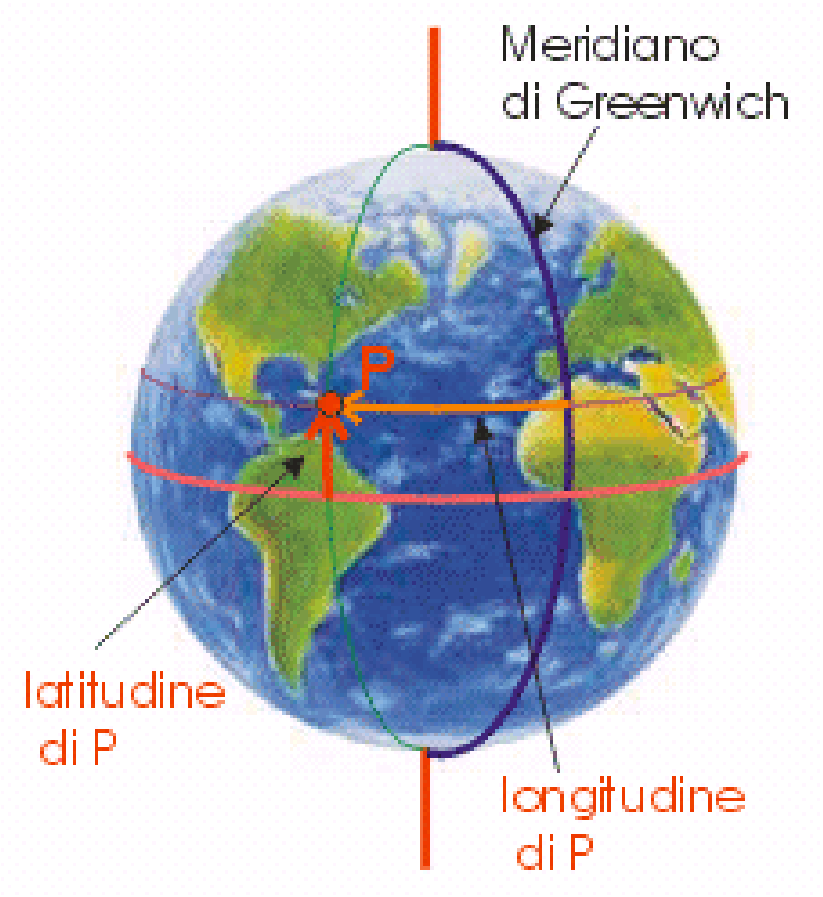

CLICCA PER GUARDARE IL VIDEO

http://lezioniscuola.jimdo.com/classe-terza/geografia/video/

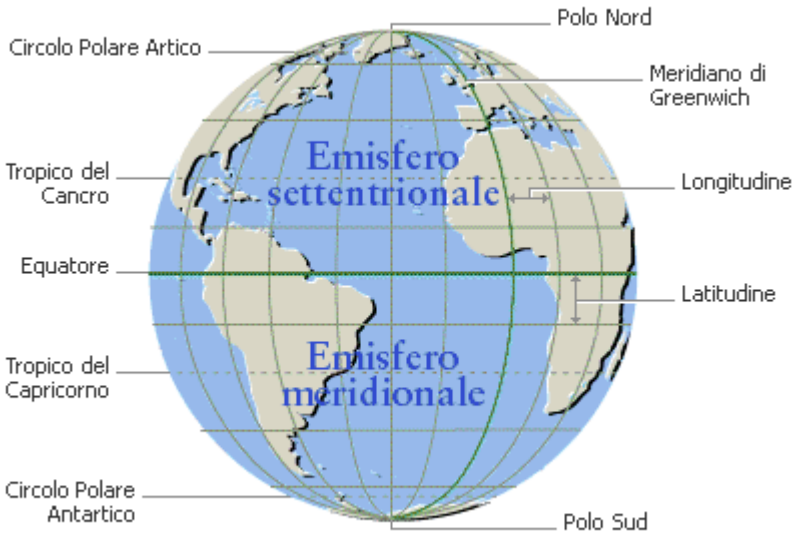

RISPONDI

- *LA MASSIMA CIRCONFERENZA DELLA TERRA COINCIDE CON*
  - *A. il tropico del cancro*
  - *B. l'equatore*
  - *C. il circolo polare*
- *L'EMISFERO CHE SI TROVA A NORD DELL'EQUATORE SI CHIAMA*
  - *A. meridionale o australe*
  - *B. intertropicale*
  - *C. settentrionale o boreale*
- *I MERIDIANI SONO LINEE IMMAGINARIE*
  - *A. perpendicolari all'equatore*
  - *B. parallele all'equatore*
  - *C. perpendicolari fra loro*
- *LA LONGITUDINE È LA DISTANZA*
  - *A. tra qualsiasi parallelo e l'equatore*
  - *B. tra qualsiasi meridiano e quello fondamentale di Greenwich*
  - *C. tra il Polo Nord e il Polo Sud*

LATITUDINE E LONGITUDINE

ESERCIZI
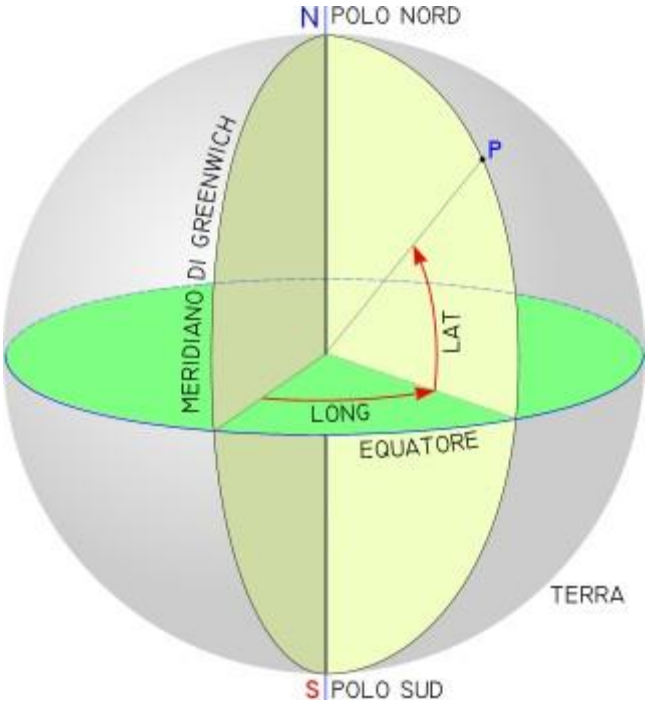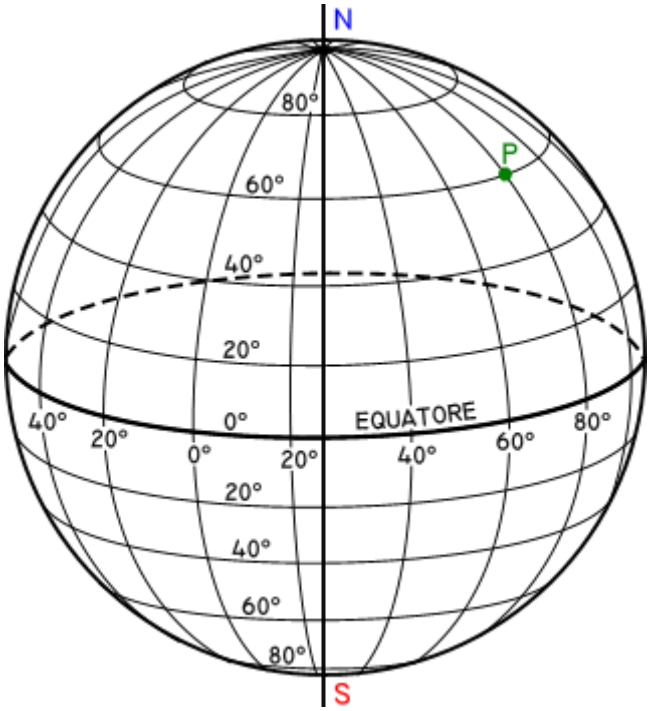
1. Calcola le coordinate geografiche del punto P
2. Disegna alcuni punti tenendo conto delle seguenti coordinate:
   - 20°lat.sud 60°long.est
   - 40°lat.nord 40°long.ovest
   - 50°lat.sud 20°long.ovest